Aufgabe

Rechne die folgenden

		4	5	6	7	8	5					7	2	0	5	7	0					3	5	6	0	0	4								
	+	3	5	2	8	5	6				+	2	4	8	6	2	0				+	5	0	3	8	9	6								
					7	2	0	3	8	9					5	2	0	6	0	7					8	2	3	9	5	6					
				-	4	5	6	2	0	5				-	3	7	8	5	9	0				-	7	8	9	3	8	8					

Aufgabe

Rechne die folgenden Aufgaben im

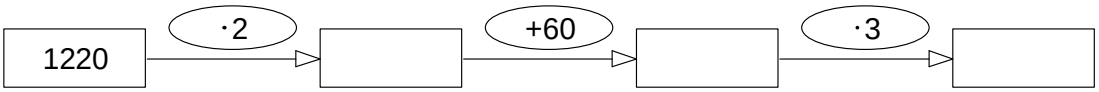

Aufgabe

In jedem Stockwerk muss die Summe der beiden Zahlen gleich der Zahl

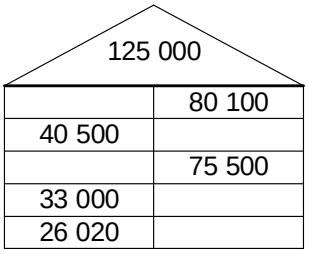

125 000	
	80 100
40 500	
	75 500
33 000	
26 020	

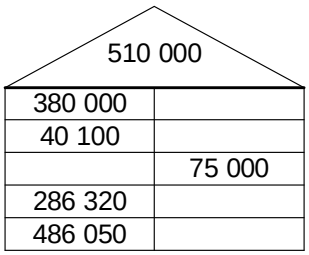

510 000	
380 000	
40 100	
	75 000
286 320	
486 050	

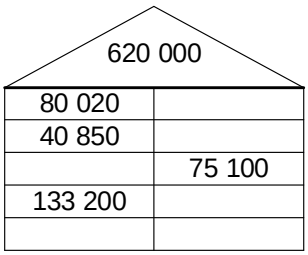

620 000	
80 020	
40 850	
	75 100
133 200	

Aufgabe 4
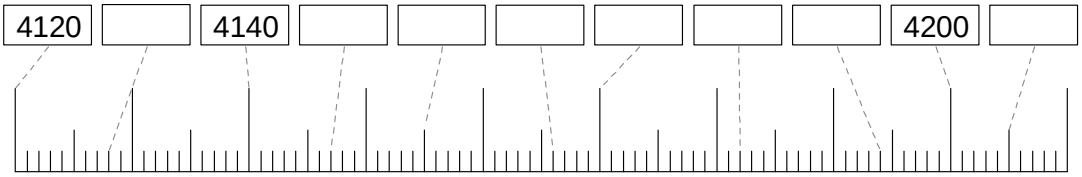
Überlege und setzte die fehlenden